وضعية ادماجية:

صفحتنا على الفايسبوك : الرياضيات للتعليم المتوسط الأستاذ قطاف

يملك فلاح بستانا مستطيل الشّكل :
إذا علمت أن محيط البستان هو $256m$
أراد هذا الفلاح أن يحيطه بأشجار مثمرة
بحيث تكون المسافة بين كل شجرتين
متساوية وأكبر ما يمكن، على أن يغرس
في كل ركن من الأركان شجرة.إذا كان
ثمن الشجرة الواحدة $450DA$ وهو يملك $29000DA$
☺ هل يكفيه المبلغ لشراء كل الأشجار اللازمة؟

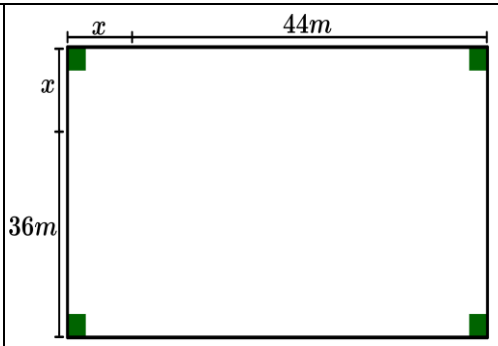

وضعية ادماجية:

صفحتنا على الفايسبوك : الرياضيات للتعليم المتوسط الأستاذ قطاف

يملك فلاح بستانا مستطيل الشّكل:
إذا علمت أن محيط البستان هو $256m$
أراد هذا الفلاح أن يحيطه بأشجار مثمرة
بحيث تكون المسافة بين كل شجرتين
متساوية وأكبر ما يمكن، على أن يغرس
في كل ركن من الأركان شجرة.إذا كان
ثمن الشجرة الواحدة $450DA$ وهو يملك $29000DA$
☺ هل يكفيه المبلغ لشراء كل الأشجار اللازمة؟

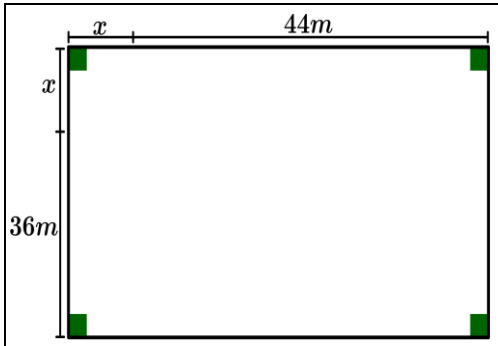

وضعية ادماجية:

صفحتنا على الفايسبوك : الرياضيات للتعليم المتوسط الأستاذ قطاف

يملك فلاح بستانا مستطيل الشّكل:
إذا علمت أن محيط البستان هو $256m$
أراد هذا الفلاح أن يحيطه بأشجار مثمرة
بحيث تكون المسافة بين كل شجرتين
متساوية وأكبر ما يمكن، على أن يغرس
في كل ركن من الأركان شجرة.إذا كان
ثمن الشجرة الواحدة $450DA$ وهو يملك $29000DA$
☺ هل يكفيه المبلغ لشراء كل الأشجار اللازمة؟

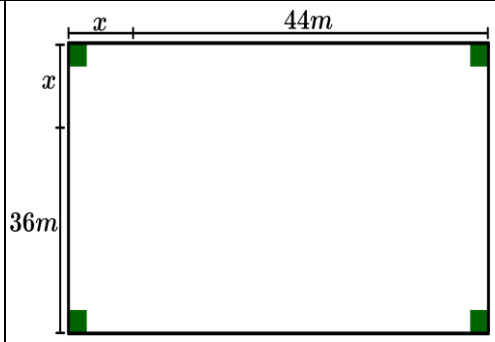

وضعية ادماجية:

صفحتنا على الفايسبوك : الرياضيات للتعليم المتوسط الأستاذ قطاف

يملك فلاح بستانا مستطيل الشّكل:
إذا علمت أن محيط البستان هو $256m$
أراد هذا الفلاح أن يحيطه بأشجار مثمرة
بحيث تكون المسافة بين كل شجرتين
متساوية وأكبر ما يمكن، على أن يغرس
في كل ركن من الأركان شجرة.إذا كان
ثمن الشجرة الواحدة $450DA$ وهو يملك $29000DA$
☺ هل يكفيه المبلغ لشراء كل الأشجار اللازمة؟

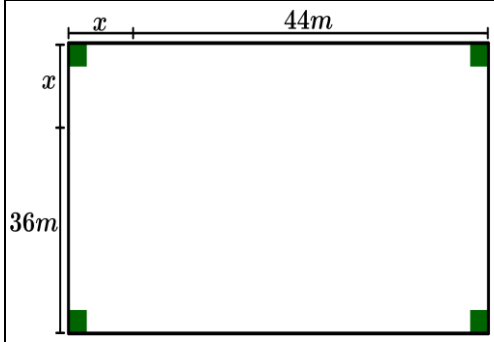

وضعية ادماجية:

صفحتنا على الفايسبوك : الرياضيات للتعليم المتوسط الأستاذ قطاف

يملك فلاح بستانا مستطيل الشّكل:
إذا علمت أن محيط البستان هو $256m$
أراد هذا الفلاح أن يحيطه بأشجار مثمرة
بحيث تكون المسافة بين كل شجرتين
متساوية وأكبر ما يمكن، على أن يغرس
في كل ركن من الأركان شجرة.إذا كان
ثمن الشجرة الواحدة $450DA$ وهو يملك $29000DA$
☺ هل يكفيه المبلغ لشراء كل الأشجار اللازمة؟

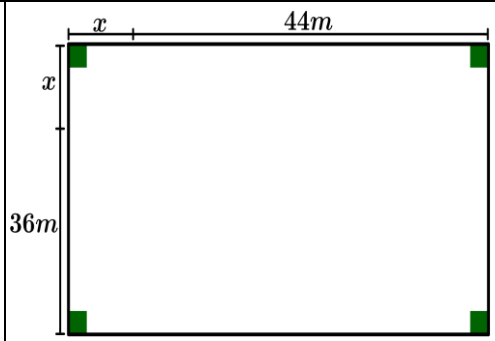

وضعية ادماجية:

صفحتنا على الفايسبوك : الرياضيات للتعليم المتوسط الأستاذ قطاف

يملك فلاح بستانا مستطيل الشّكل:
إذا علمت أن محيط البستان هو $256m$
أراد هذا الفلاح أن يحيطه بأشجار مثمرة
بحيث تكون المسافة بين كل شجرتين
متساوية وأكبر ما يمكن، على أن يغرس
في كل ركن من الأركان شجرة.إذا كان
ثمن الشجرة الواحدة $450DA$ وهو يملك $29000DA$
☺ هل يكفيه المبلغ لشراء كل الأشجار اللازمة؟

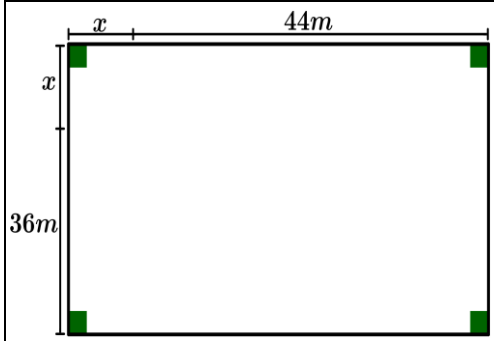

وضعية ادماجية:

صفحتنا على الفايسبوك : الرياضيات للتعليم المتوسط الأستاذ قطاف

يملك فلاح بستانا مستطيل الشّكل:
إذا علمت أن محيط البستان هو $256m$
أراد هذا الفلاح أن يحيطه بأشجار مثمرة
بحيث تكون المسافة بين كل شجرتين
متساوية وأكبر ما يمكن، على أن يغرس
في كل ركن من الأركان شجرة.إذا كان
ثمن الشجرة الواحدة $450DA$ وهو يملك $29000DA$
☺ هل يكفيه المبلغ لشراء كل الأشجار اللازمة؟

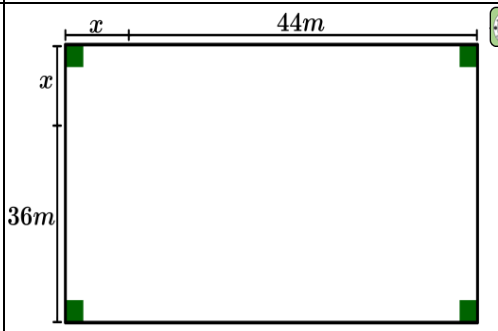

وضعية ادماجية:

صفحتنا على الفايسبوك : الرياضيات للتعليم المتوسط الأستاذ قطاف
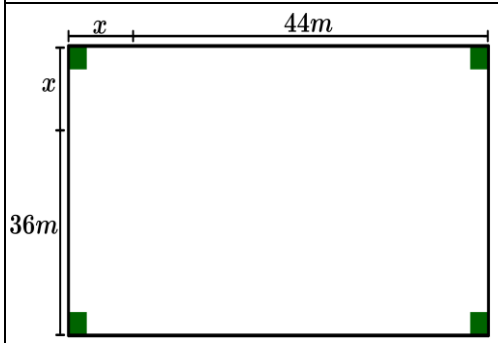
يملك فلاح بستانا مستطيل الشّكل:
إذا علمت أن محيط البستان هو $256m$
أراد هذا الفلاح أن يحيطه بأشجار مثمرة
بحيث تكون المسافة بين كل شجرتين
متساوية وأكبر ما يمكن، على أن يغرس
في كل ركن من الأركان شجرة.إذا كان
ثمن الشجرة الواحدة $450DA$ وهو يملك $29000DA$
☺ هل يكفيه المبلغ لشراء كل الأشجار اللازمة؟