استجواب 12 د

إليك الشكل المقابل حيث (BC)//(MN) :

1- انقل واتمم: $\frac{AM}{\dots} = \frac{\dots}{\dots} = \frac{\dots}{\dots}$

2- احسب AM و BC.

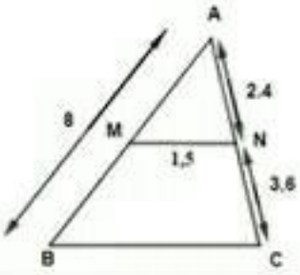

استجواب 12 د

إليك الشكل المقابل حيث (BC)//(MN) :

1- انقل واتمم: $\frac{AM}{\dots} = \frac{\dots}{\dots} = \frac{\dots}{\dots}$

2- احسب AM و BC.

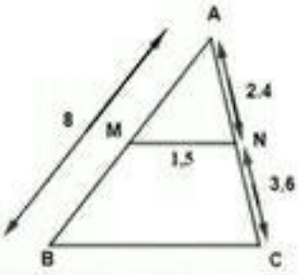

استجواب 12 د

إليك الشكل المقابل حيث (BC)//(MN) :

1- انقل واتمم: $\frac{AM}{\dots} = \frac{\dots}{\dots} = \frac{\dots}{\dots}$

2- احسب AM و BC.

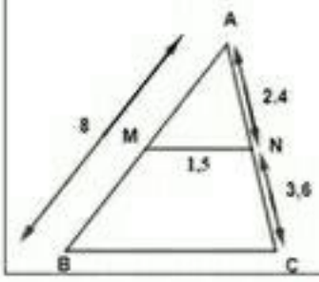

استجواب 12 د

إليك الشكل المقابل حيث (BC)//(MN) :

1- انقل واتمم: $\frac{AM}{\dots} = \frac{\dots}{\dots} = \frac{\dots}{\dots}$

2- احسب AM و BC.

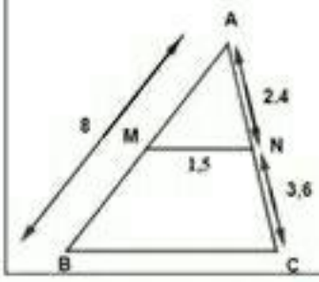

استجواب 12 د

إليك الشكل المقابل حيث (BC)//(MN) :

1- انقل واتمم: $\frac{AM}{\dots} = \frac{\dots}{\dots} = \frac{\dots}{\dots}$

2- احسب AM و BC.

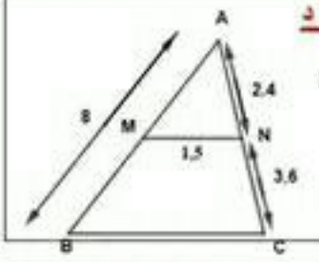

استجواب 12 د

إليك الشكل المقابل حيث (BC)//(MN) :

1- انقل واتمم: $\frac{AM}{\dots} = \frac{\dots}{\dots} = \frac{\dots}{\dots}$

2- احسب AM و BC.

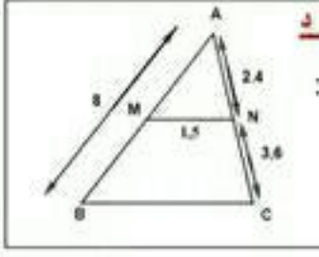

استجواب 12 د

إليك الشكل المقابل حيث (BC)//(MN) :

1- انقل واتمم: $\frac{AM}{\dots} = \frac{\dots}{\dots} = \frac{\dots}{\dots}$

2- احسب AM و BC.

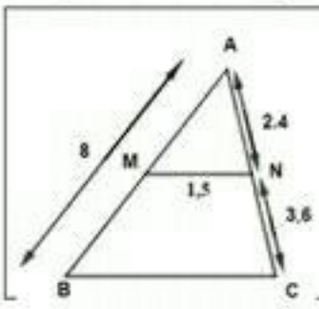

استجواب 12 د

إليك الشكل المقابل حيث (BC)//(MN) :

1- انقل واتمم: $\frac{AM}{\dots} = \frac{\dots}{\dots} = \frac{\dots}{\dots}$

2- احسب AM و BC.

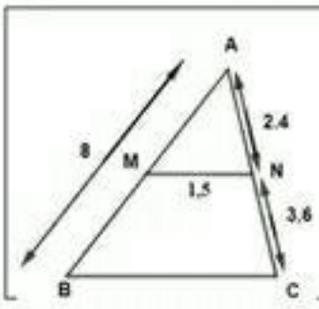

استجواب 12 د

إليك الشكل المقابل حيث (BC)//(MN) :

1- انقل واتمم: $\frac{AM}{\dots} = \frac{\dots}{\dots} = \frac{\dots}{\dots}$

2- احسب AM و BC.

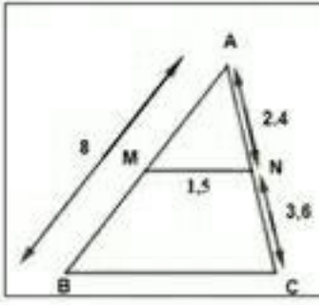

استجواب 12 د

إليك الشكل المقابل حيث (BC)//(MN) :

1- انقل واتمم: $\frac{AM}{\dots} = \frac{\dots}{\dots} = \frac{\dots}{\dots}$

2- احسب AM و BC.

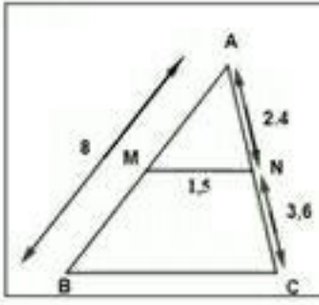

استجواب 12 د

إليك الشكل المقابل حيث (BC)//(MN) :

1- انقل واتمم: $\frac{AM}{\dots} = \frac{\dots}{\dots} = \frac{\dots}{\dots}$

2- احسب AM و BC.

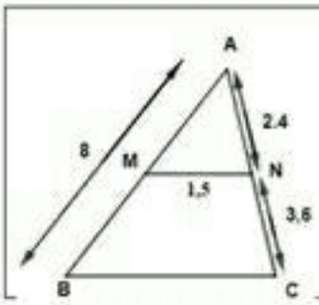

استجواب 12 د

إليك الشكل المقابل حيث (BC)//(MN) :

1- انقل واتمم: $\frac{AM}{\dots} = \frac{\dots}{\dots} = \frac{\dots}{\dots}$

2- احسب AM و BC.

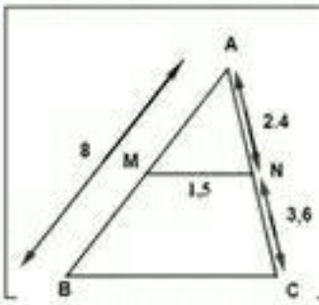

استجواب 12 د

إليك الشكل المقابل حيث (BC)//(MN) :

1- انقل واتمم: $\frac{AM}{\dots} = \frac{\dots}{\dots} = \frac{\dots}{\dots}$

2- احسب AM و BC.

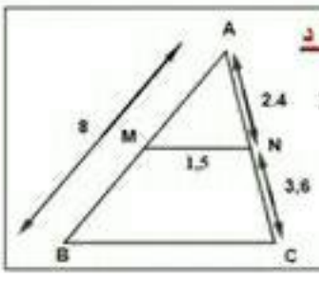

استجواب 12 د

إليك الشكل المقابل حيث (BC)//(MN) :

1- انقل واتمم: $\frac{AM}{\dots} = \frac{\dots}{\dots} = \frac{\dots}{\dots}$
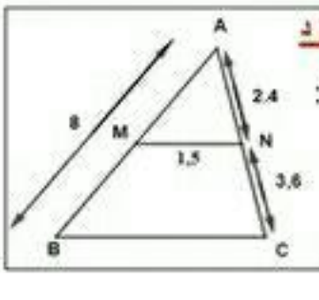
2- احسب AM و BC.