المقطع التعلمي : 5	**الأسبوع** :	**السنة الثانية إبتدائي**	**الأستاذ بكدي ربيع**	**التاريخ** : ...../ ..... /2025
الميدان : الأعداد والحساب	**المحتوى** : ضرب عددين (3)			**مدرسة الشهيد حفناوي بن شاعة**
النشاط : رياضيات	**القيم** : يستعمل الترميز والمصطلحات العالمية بشكل سليم .		**الحصة**: 1	**المدة** :60+30د
الهدف التعلمي :يفكك عملية الضرب ، ويكتبها بكيفيات أخرى ،ويكمل حسابها .				

المراحل	الوضعيات التعليمية التعلمية	المؤشرات
وضعية الإنطلاق	الحساب الذهني : 10 20 30 40 50 60 70 80 90 100 على اللوحة : أحسب : 15x10 8x10 6x10	يعد يحسب
بناء التعلمات	**أكتشف :** اشترى سليم 3 علب من الشوكولاطة ، تحمل كل علبة 12 حبة شوكولاطة. نريد حساب كل حبات الشوكولاطة الموجودة في العلب . حسب سليم فوجد : 12+12+12=36 حسبت ميس فوجدت :12x3=36 حسب رائد فوجد : **أكمل الحساب:** **12+12+12=.....** **12x4=.....** **10x4+2x4=...+...=.....** **عدد حبات الشوكولاطة هو .....حبة.** 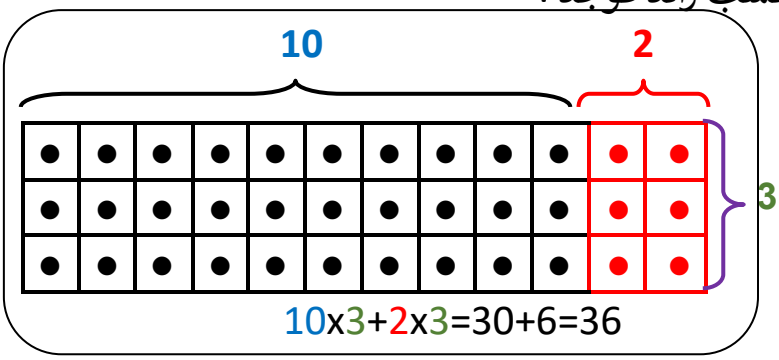 **أنجز :** 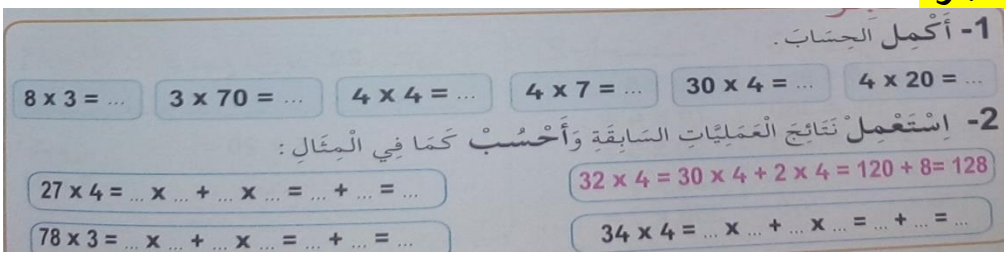 1- أَكْمِلِ الحِسَابَ. 4 x 20 = ... 30 x 4 = ... 4 x 7 = ... 4 x 4 = ... 3 x 70 = ... 8 x 3 = ... 2- اِسْتَعْمِلْ نَتَائِجَ الْعَمَلِيَّاتِ السَّابِقَةِ وَأَحْسُبْ كَمَا فِي الْمِثَالِ : 32 x 4 = 30 x 4 + 2 x 4 = 120 + 8= 128 34 x 4 = ... x ... + ... x ... = ... + ... = ... 27 x 4 = ... x ... + ... x ... = ... + ... = ... 78 x 3 = ... x ... + ... x ... = ... + ... = ... **تعلمت :** 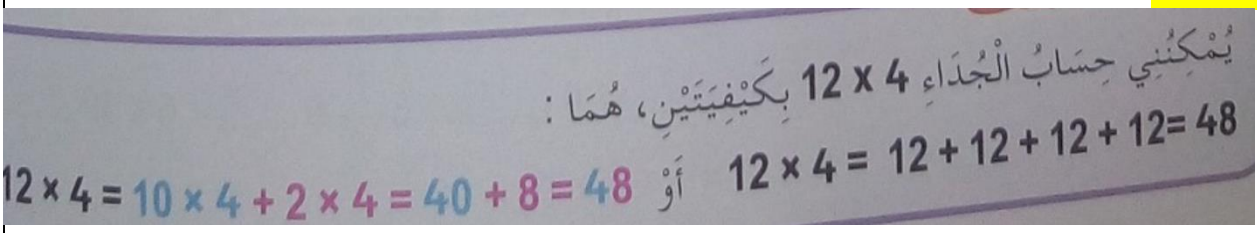 يُمْكِنُنِي حِسَابُ الْجُدَاءِ 12 x 4 بِكَيْفِيَّتَيْنِ، هُمَا : 12 x 4 = 12 + 12 + 12 + 12= 48 أَوْ 12 x 4 = 10 x 4 + 2 x 4 = 40 + 8 = 48	يلاحظ يستمع يجيب يكتب ينجز يستنتج تعلمت
الإستثمار	على كراريس القسم : .....=.....x.....+.....x.....=..... / 43x5=.....x.....+.....x.....=.....25x3 الحصة الثانية لحل تمارين وأنشطة الدفتر .	تصحيح فردي جماعي