م.عيسات إيدير — واجب منزلي 4 — 3م

لفلاح بستان به عدة أنواع من الأشجار.
من أجل سقيها، قام الفلاح ببناء حوض مائي على شكل متوازي المستطيلات كما في الشكل.
تحتاج أشجار التفاح إلى رُبع كمية الماء و أشجار المشمش إلى ثُلثيْ الباقي، بينما تحتاج أشجار الإجاص إلى 7500L.

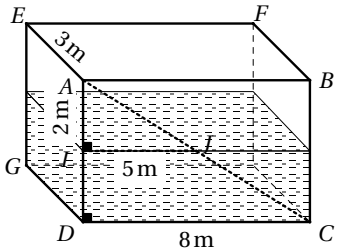

يُعطى : $AI = 2m$ ؛ $IJ = 5m$ ؛ $CD = 8m$ ؛ $AE = 3m$.

هل تكفي كمية الماء الموجودة في الحوض لسقي كل أشجار البستان ؟ علل.

م.عيسات إيدير — واجب منزلي 4 — 3م

لفلاح بستان به عدة أنواع من الأشجار.
من أجل سقيها، قام الفلاح ببناء حوض مائي على شكل متوازي المستطيلات كما في الشكل.
تحتاج أشجار التفاح إلى رُبع كمية الماء و أشجار المشمش إلى ثُلثيْ الباقي، بينما تحتاج أشجار الإجاص إلى 7500L.

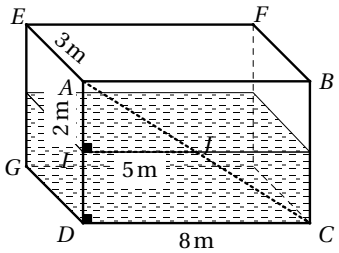

يُعطى : $AI = 2m$ ؛ $IJ = 5m$ ؛ $CD = 8m$ ؛ $AE = 3m$.

هل تكفي كمية الماء الموجودة في الحوض لسقي كل أشجار البستان ؟ علل.

م.عيسات إيدير — واجب منزلي 4 — 3م

لفلاح بستان به عدة أنواع من الأشجار.
من أجل سقيها، قام الفلاح ببناء حوض مائي على شكل متوازي المستطيلات كما في الشكل.
تحتاج أشجار التفاح إلى رُبع كمية الماء و أشجار المشمش إلى ثُلثيْ الباقي، بينما تحتاج أشجار الإجاص إلى 7500L.

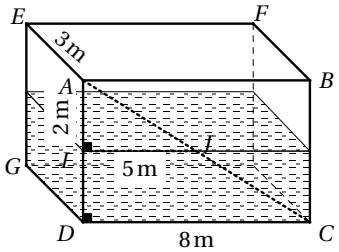

يُعطى : $AI = 2m$ ؛ $IJ = 5m$ ؛ $CD = 8m$ ؛ $AE = 3m$.

هل تكفي كمية الماء الموجودة في الحوض لسقي كل أشجار البستان ؟ علل.

م.عيسات إيدير — واجب منزلي 4 — 3م

لفلاح بستان به عدة أنواع من الأشجار.
من أجل سقيها، قام الفلاح ببناء حوض مائي على شكل متوازي المستطيلات كما في الشكل.
تحتاج أشجار التفاح إلى رُبع كمية الماء و أشجار المشمش إلى ثُلثيْ الباقي، بينما تحتاج أشجار الإجاص إلى 7500L.

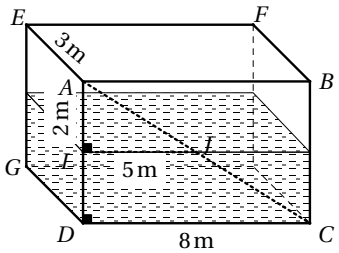

يُعطى : $AI = 2m$ ؛ $IJ = 5m$ ؛ $CD = 8m$ ؛ $AE = 3m$.

هل تكفي كمية الماء الموجودة في الحوض لسقي كل أشجار البستان ؟ علل.

م.عيسات إيدير — واجب منزلي 4 — 3م

لفلاح بستان به عدة أنواع من الأشجار.
من أجل سقيها، قام الفلاح ببناء حوض مائي على شكل متوازي المستطيلات كما في الشكل.
تحتاج أشجار التفاح إلى رُبع كمية الماء و أشجار المشمش إلى ثُلثيْ الباقي، بينما تحتاج أشجار الإجاص إلى 7500L.

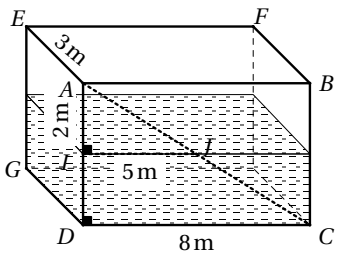

يُعطى : $AI = 2m$ ؛ $IJ = 5m$ ؛ $CD = 8m$ ؛ $AE = 3m$.

هل تكفي كمية الماء الموجودة في الحوض لسقي كل أشجار البستان ؟ علل.

م.عيسات إيدير — واجب منزلي 4 — 3م

لفلاح بستان به عدة أنواع من الأشجار.
من أجل سقيها، قام الفلاح ببناء حوض مائي على شكل متوازي المستطيلات كما في الشكل.
تحتاج أشجار التفاح إلى رُبع كمية الماء و أشجار المشمش إلى ثُلثيْ الباقي، بينما تحتاج أشجار الإجاص إلى 7500L.

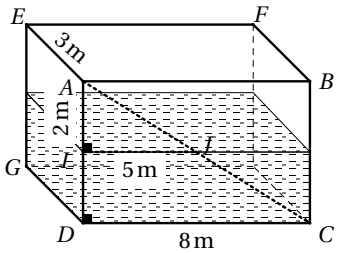

يُعطى : $AI = 2m$ ؛ $IJ = 5m$ ؛ $CD = 8m$ ؛ $AE = 3m$.

هل تكفي كمية الماء الموجودة في الحوض لسقي كل أشجار البستان ؟ علل.

م.عيسات إيدير — واجب منزلي 4 — 3م

لفلاح بستان به عدة أنواع من الأشجار.
من أجل سقيها، قام الفلاح ببناء حوض مائي على شكل متوازي المستطيلات كما في الشكل.
تحتاج أشجار التفاح إلى رُبع كمية الماء و أشجار المشمش إلى ثُلثيْ الباقي، بينما تحتاج أشجار الإجاص إلى 7500L.

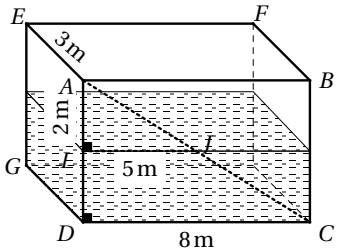

يُعطى : $AI = 2m$ ؛ $IJ = 5m$ ؛ $CD = 8m$ ؛ $AE = 3m$.

هل تكفي كمية الماء الموجودة في الحوض لسقي كل أشجار البستان ؟ علل.

م.عيسات إيدير — واجب منزلي 4 — 3م

لفلاح بستان به عدة أنواع من الأشجار.
من أجل سقيها، قام الفلاح ببناء حوض مائي على شكل متوازي المستطيلات كما في الشكل.
تحتاج أشجار التفاح إلى رُبع كمية الماء و أشجار المشمش إلى ثُلثيْ الباقي، بينما تحتاج أشجار الإجاص إلى 7500L.

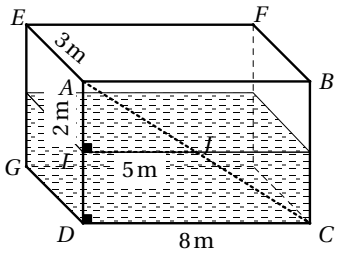

يُعطى : $AI = 2m$ ؛ $IJ = 5m$ ؛ $CD = 8m$ ؛ $AE = 3m$.

هل تكفي كمية الماء الموجودة في الحوض لسقي كل أشجار البستان ؟ علل.