ابتدائية الشهيد إلياس العربي أبو بجاية — قسم السنة الثالثة ابتدائي 2018

المدة: ساعة ونصف — اسم ولقب التلميذ:.....

اختبار الفصل الأول في مادة الرياضيات

التمرين الأول: أ- أنجز العمليات عموديا:

7365 – 2154 =.....

.....

+.....

=.....

6034 + 819 =.....

.....

+.....

=.....

ب- أكمل الفراغ:

.....+.....=.....

2 . 6 .

+ . 3 . 2

7 3 . 0

التمرين الثاني: حول إلى الوحدة المناسبة:

4 kg + 2000 g = ...kg

7 m + 225 cm = ...cm

28 cl + 34 dL = ...cL

350 g + 600 g + ...g = 1 kg

5000 mm = ...m

800 cL = ...L

التمرين الثالث:

- احصر العدد بين عددين عشراتهما متتاليتين:

.....< 725 <.....

- احصر العدد بين عددين متتاهما متتاليتين:

.....< 4197 <.....

- ضع = ، > ، < مكان النقط:

420 . 160 + 253

1000 + 600 + 20 + 9 . 1629

421 + 100 . 836 - 200

التمرين الرابع: املأ الفراغ بالعبارة المناسبة: على نفس الاستقامة - ليست على استقامة واحدة - متوازيتان - متعامدتان

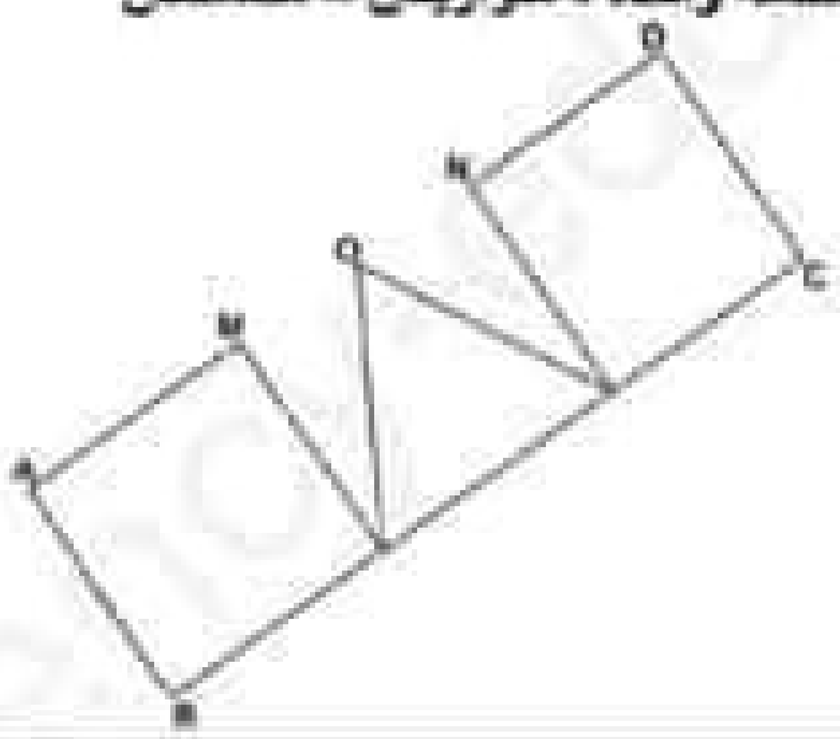

- القطعتان [AB] و [DC].....
- النقاط A . D . M . O. N .....
- القطعتان [AB] و [BC].....
- النقاط C . M . A.....

- لون زاويتين قائمتين في الشكل.

الوضعية الادماجية: في العطلة ذهبت مع عائلتي إلى شاطئ البحر، المسافة بيننا وبين شاطئ البحر 295 Km، وفي الطريق رأيت لافتة كتب عليها 1, 48 Km .

1- احسب المسافة التي قطعتها السيارة.

عندما وصلنا إلى الشاطئ، اشترينا كرة ب 450 DA، وعوامتين لي و لأخي الصغير بـ 750 DA للعوامة الواحدة.

2- احسب ثمن العوامتين.

3- ما هو ثمن المشتريات؟.

الجمهورية الجزائرية الديمقراطية الشعبية

وزارة التربية الوطنية.
المدة: ساعة و احدة/احد
المستوى: الثالثة ابتدائي.

مدرسة الابتدائية بن عمر ميده
السنة الدراسية : 2018 / 2019

امتحان الأول في مادة الرياضيات

الوضعية الأولى: أنجز العمليات التالية عموديًا :

1335 + 524 = ... 565 + 2303 = ... 3854 – 1102 = ... 5817 – 3805 = ...

الوضعية الثانية : رتب هذه المقادير من الأكبر إلى الأصغر :

30 L 500 cL 11 cL 1 L 305 cL

.....

الوضعية الثالثة : أجب عن ما يلي بالاعتماد على الشكل :

- هل النقاط الخضراء في استقامية ؟
- هل هناك 4 نقاط زرقاء في استقامية ؟
- أضف نقطة خضراء واحدة لتحصل على 4 نقاط خضراء.



الوضعية الإدماجية:

عند قادي ورقة نقدية من فئة **1000 DA** و قد اشترى كراسات للأعمال التطبيقية بمبلغ **55 AD** و فانوس بـ **445 DA** و لوحة بيضاء بـ **100 DA** .

- ما هو مبلغ الصرف الذي سترده البائع له ؟

العمليات	الأصل	الأمر
.....	.....	.....
.....	.....	.....
.....	.....	.....
.....	.....	.....
.....	.....	.....
.....	.....	.....
.....	.....	.....

مديرية التربية لولاية البليدة

ابتدائية: السواكرية 01-

اسم و لقب التلميذ: .....

المستوى: السنة الثالثة ابتدائي

السنة الدراسية: 2019/2018

امتحان الفصل الأول في مادة الرياضيات

قائمة الأسعار

السكر = 100 دج
الطريشة = 120 دج
الزبدة = 140 دج
الفراولة =600 دج

الوضعية01: ذهبت مع والدك لشراء بعض اللوازم التي تحتاجها أمك لصنع كعكة العيد.

رتب هذي الأسعار من الأرخص إلى الأغلى ⟶

.....

الوضعية 02 : كما اشترى الأب من قبل ثلاثة أطباق من البيض و 2 كيلو غرام من اللوز

قائمة الأسعار

البيض= 300 دج للطبق الواحد
اللوز = 1200 دج للكيلو غرام

1/ أحسب ثمن البيض:	2/ أحسب ثمن اللوز
.....	.....
.....	.....
.....	.....
.....	.....

الوضعية 03: أثناء تحضير الكعكة طلبت منك أمك أن تساعدها في تزيين الكعكة بقطع اللوز والفراولة



1- ارسم بالأحمر 04 قطع فراولة في استقامية واحدة.

2- ارسم بالأصفر 04 قطع لوز ليست في استقامية.

الوضعية 04: لتزيين الكعكة طلبت منك أمك شراء شريط فاحترت في اختيار لون الشريط المناسب بحيث أن: الشريط الأحمر طوله 180cm ، أما الشريط البنفسجي فطوله **1m75cm** .

1- أكمل 1m75cm =.....cm

2- أكمل الإجابة: الشريط الأطول هو الشريط .....

الوضعية الإدماجية:

مشكلة:

كان معك 1000 دج وزادك أبيك 875 دج

اشتريت هدية لأمك ثمنها 1225 دج

1- أحسب المبلغ الذي جمعته .

2- أحسب المبلغ الذي بقي عندك

العمليات	الحل	الأجوبة
.....	.....	.....
.....	.....	.....
.....	.....	.....
.....	.....	.....
.....	.....	.....
.....	.....	.....

مديرية التربية لولاية البليدة

ابتدائية: السواكرية 01 - المستوى: السنة الثالثة ابتدائي

اسم و لقب التلميذ: _____ السنة الدراسية: 2019/2018

امتحان الفصل الأول في مادة الرياضيات

الوضعية01: ذهبت مع والدك لشراء بعض اللوازم التي تحتاجها أمك لصنع كعكة العيد.

أرتب هذي الأسعار من الأرخص إلى الأغلى ⟶

.....

قائمة الأسعار

السكر= 100 دج
الفرينة = 120 دج
الزبدة = 140 دج
الفراولة =600 دج

الوضعية 02 : كما اشترى الأب من قبل ثلاثة أطباق من البيض و 2 كيلو غرام من اللوز

قائمة الأسعار

البيض= 300 دج للطبق الواحد
اللوز = 1200 دج للكيلو غرام

1/ أحسب ثمن البيض:	2/ أحسب ثمن اللوز
.....	.....
.....	.....
.....	.....
.....	.....

الوضعية 03: أثناء تحضير الكعكة طلبت منك أمك أن تساعدها في تزيين الكعكة بقطع اللوز والفراولة

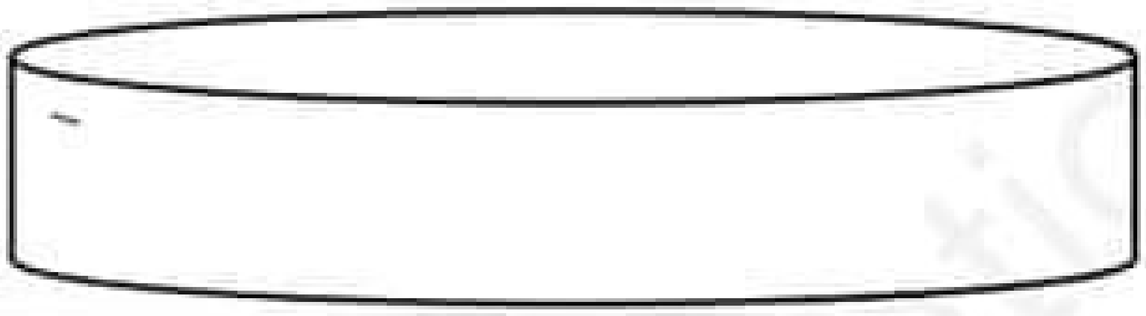

1- أرسم **بالأحمر** 04 قطع فراولة **في استقامية** واحدة.

2- ارسم **بالأصفر** 04 قطع لوز **ليست في استقامية**.

الوضعية 04: لتزيين الكعكة طلبت منك أمك شراء شريط فاحترت في اختيار لون الشريط المناسب بحيث أن: الشريط الأحمر طوله 180cm ، أما الشريط البنفسجي فطوله **1m75cm .**

1- أكمل 1m75cm =.....cm

2- أكل الإجابة: الشريط الأطول هو الشريط .....

الوضعية الإدماجية:

مشكلة:

كان معك 1000 دج وزادك أباك 875دج

اشتريت هدية لأمك ثمنها 1225 دج

1- أحسب المبلغ الذي جمعته .

2- أحسب المبلغ الذي بقي عندك

العمليات	الحل	الأجوبة
.....	.....	.....
.....	.....	.....
.....	.....	.....
.....	.....	.....
.....	.....	.....
.....	.....	.....

www.ency-education.com/3ap.html

المستوى :الثالثة ابتدائي مكيف (3AP) ديسمبر 2019

اختبار الفصل الأول في مادة الرياضيات

السؤال الأول(4ن):

أكتب الأعداد بالحروف:

654 .....

263.....

أكتب الأعداد بالأرقام:

ثلاثمئة و سبعة و عشرون .....

تسعمئة و أربعة و ثمانون .....

السؤال الثاني(2ن):

فكك الأعداد التالية الى وحدات و عشرات و مئات كما في المثال

452=400+50+2

625=.....+... +.

390=.....+...+..

901 =....+...+..

551=....+...+..

777=....+...+..

السؤال الثالث:

19 جانفي هو يوم .....

اليوم الأول من شهر جانفي هو.....

اليوم الأخير من شهر جانفي هو .....

يتكون شهر جانفي من .....يوم

جانفي 2017

الأحد	الإثنين	الثلاثاء	الأربعاء	الخميس	الجمعة	السبت
1	2	3	4	5	6	7
8	9	10	11	12	13	14
15	16	17	18	19	20	21
22	23	24	25	26	27	28
29	30	31				

حي فعلول –برج البحري– الجزائر

Web site : www.ets-salim.com /021.87.16.89 : الفاكس- Tel-Fax : 021.87.10.51 :

المستوى :الثالثة ابتدائي (3AP)	ديسمبر، 2018

اختبار الفصل الأول في مادة الرياضيات

التمرين الأول : أنجز العمليات التالية :

439	503	169	646
+ 232	+ 298	+ 553	- 223
_____	_____	_____	_____

التمرين الثاني : أربط بين السعات المتساوية ثم رتبها من الأصغر إلى الأكبر.

300CL	250 CL
230CL	5 L
2L50CL	2 L 30 CL
500CL	3 L

1 2 3 4

التمرين الثالث : أحصر الأعداد التالية بين :

أ-عشرتين متتاليتين

.....<439 <.....

..... < 218 <.....

ب-مائتين متتاليتين

.....<318< .....

.....<506< .....

ابتدائية إبراهيمي عبد القادر القسم: السنة الثالثة ابتدائي

الموسم الدراسي:2019/2018 اسم ولقبالتلميذ(ة):.....

امتحان الفصل الأول في الرياضيات

1/ أحسب العمليات التالية:(1.5)

627+439 =.....

2324+1513=.....

820-347= .....

2/ أكمل مايلي (1.5)

6(و) ، 2(ع) ، 5(م) ، 4(أ) = ...+ .....+ .....+ ..... =

.... (و) ،....(ع) ،....(م) ،.....(أ) = 3 + 70 + 400 + 2000 =

.... (و) ،....(ع) ،....(م) ،.....(أ) =..... +..... +..... =6728

3/ اكمل مايلي بما يناسب (2)

7x3=....x.... / 2+2+.+.+.= ....x....

2 x4=.... / 5+5+5=....x.....

4/ وضعية إدماجية :(4)

أراد جدك أن يغرس أشجارا في بستانه ،فاشترى (3)شجيرات تفاح بسعر 30دينار للشجيرة الواحدة ،وشجرتين(2)زيتون بسعر 50دينار للشجرة الواحدة

ساعد جدك على حساب :

1 ثمن شراء شجيرات التفاح .....

2 ثمن شراء شجيرات الزيتون .....

3 ثمن شراء كل الشجيرات .....

4 احصر ثمن الشجيرات بين مئتين متتاليتين .....

الوضعية 05: اكمل الجدول الآتي بما يناسب .

رقم العشرات	العدد	عدد العشرات
0	807	80
2	123	12

– احصر الأعداد بين عشرتين متتاليتين .

620.<623< .630

950.<958 <960

الوضعية 06: اكمل متتالية الأعداد الآتية .

286	386	486	586	686	786

المشكلة :

أراد مراد شراء آلة تصوير ثمنها **785 دينارا** ، فقام بعد نقوده التي ادخرها فوجد، **ورقة نقدية من فئة 500 دينار** ، **وورقة واحدة من فئة 200دينار** ، و **قطعة نقدية من فئة 50دينار** و قطعة نقدية من **فئة 5 دينار** .

1– احسب مجموع النقود التي يملكها مراد و مثلها بالرسم .

2 – هل تكفيه نقوده لشراء آلة التصوير ؟ ولماذا ؟

التمثيل بالرسم

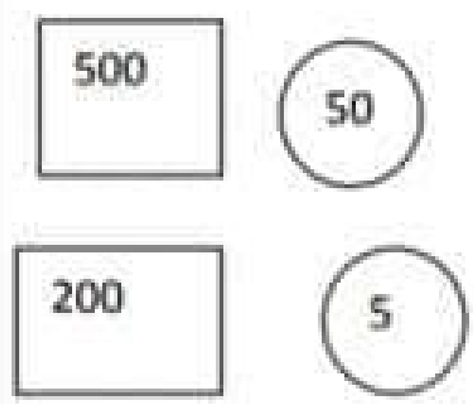

500+200 =700

50+5=55 .....700+.55=755.....

لايمكن لمراد شراء آلة التصوير لأن نقوده غير كافية

755 < 785

اسم ولقب التلميذ: .....

المدرسة: بوقادي علاوة " عين فكرون"

المستوى: الثالثة ابتدائي

2020/2019

الأستاذة: ع خولة

اختبار الفصل الأول في مادة الرياضيات

التمرين الأول

انجز العمليات التالية :

999 − 538 = ...

435 + 262 = ...

446 + 155 = ...

378 + 413 = ...

964 − 531 = ...

643 − 423 = ...

التمرين الثاني

قارن بين الأعداد التالية باستعمال أحد الرموز: < . > . =

965 . 545

345 . 347

671 . 692

555 . 555

التمرين الثالث

فكك ما يلـــــي:

465 = . + . + .

851 = . + . + .

663 = . + . + .

918 = . + . + .

التمرين الرابع

انجز التحويلات التالية:

5 m = . cm

9 dm = . mm

8 m = . mm

الوضعية الإدماجية

- اشترى وَليدُ مِحْفَظَةً ثَمَنُهَا 325 دج، وَعُلْبَةُ أَلْوَانٍ ثَمَنُهَا 162 دج، وَكِتَابٌ ثَمَنُهُ 235 دج.

- **ما هو ثَمَنُ كُلِ المُشْتَرَيَاتِ ؟**

إِذَا عَلِمْتَ أَنَّ وَلِيد يَمِلِكُ مَبْلَغُ قَدْرُهُ 835 دج .

- **كَمْ بَقِيَ لَهُ بَعْدَ شِرَائِهِ للأَدَوَاتِ؟**

العمليات	الحل	الأجوبة
ع2 ... ... / ... ... = ...	ع1 ... ... / ... ... / ... ... = ...	✓ ثَمَنُ كُلِ المُشْتَرَيَاتِ = ...
		✓ بَقِيَ عِنْدَ وَلِيْد بَعْدَ شِرَائِهِ للأَدَوَاتِ = ...

بالتوفيق

مكتبة الاقصى – عين البيضاء مكتبة الاقصى

تصحيح الوقفة التقييمية في نشاط الرياضيات الثالثة إبتدائي

الوضعية 01: اكتب الأعداد الآتية بالحروف أو بالأرقام .

871:ثمان مائة وواحد و سبعون

601: ست مائة وواحد

سبع مائة و أربعون :740 **مئتان و ثلاثة عشر**:.213

الوضعية 02: املأ الجدول الآتي حسب المثال .

4 و ، 5 م	500+4	خمس مائة و أربعة	504
9و،7ع،3م	300+70+9	ثلاث مائة و تسعة و سبعون.	379.
8و، 8ع 8م	800+80+8	ثمان مائة و ثمانية و ثمانون	888

الوضعية 03: استعمل مسطرتك المدرجة و احسب أطوال القطع المستقيمة A ;B ;C ثم رتبها من الأطول إلى الأقصر مع وضع الرمز المناسب .

طول القطعة [A] 6cm

طول القطعة [B] 4cm

طول القطعة [C] 7 cm

..b.. <.a.... <... c....

الوضعية04: : انجز العمليات التالية بالستعمال الشريط العددي .

78−35=.....

43 48 78

44+23 =..67.....

44 64 67

الاسم و اللقب :.....التاريخ:.....

ابتدائية : بريهمات عبد الحميد **السّنة الثّالثة ابتدائي**

اختبار الفصل الأول في الرياضيات2020/2019

أكمل الجدول بما يناسب :**التمرين الأول :**

العَدَدُ	الكِتابَةُ بِالأَرْقامِ	الكِتابَةُ بِالحُروفِ	التَّفْكيكُ النَّموذَجي
5و6ع 7م	.....	.....	.....+.....+.....
.....	.....	ثَمانُمائَةٍ وَ واحِدٌ	.....+.....+.....

أحصُرْ الأعداد الآتية بين :**التّمرين الثّاني:**

أ- عشرتين متتاليتين **ب- مائتين متتاليتين**

.....<439 <..... .....<318< .....

.....< 298 < ....<9 06< .....

حَوِّلْ إلى الوِحْدَةِ المُناسِبَةِ :**التّمرين الثّالث:**

3L=.....CL ، 2L +300CL=.....L ، 900CL = ...L

4m = ...cm ، 8m و 56 dm = ... cm ، 1 dm و7cm = ...mm

أرْسُمْ قِطْعَةَ مُسْتَقيمةً AB طُولُها 6CM**التمرين الرّابع:**

عَيِّنْ مُنْتَصَفَها النُّقْطَةَ M . - ماهُو طول القِطْعَة المستقيمة AM ؟

عِنْدَ رِضا **350** دينارا وَ عِنْدَ أُخْتِهِ مُنى **ضِعْفَ** ما عِنْدَهُ .**الوضعية الادماجية:**

1 - كَمْ ديناراً عِنْدَ مُنى ؟ **2** - كَمْ ديناراً عِنْدَ رضا و منى معاً ؟

بِمُناسَبَةِ عيدِ الأُمِّ اِشْتَرَيا لِأُمِّهِما هَدِيَّةً رائِعَةً ثَمَنُها يُساوي **نِصْفَ** المَبْلَغِ الَّذي جمعاهُ معاً .

3 - ما هُوَ ثَمَنُ الْهَدِيَّةِ ؟

الاجوبة **الحلُّ** **العمليات**

.....

.....

.....

.....

.....

المستوى :الثالثة ابتدائي (3AP) أكتوبر 2019

وقفة تقييمية للفصل الأول في مادة الرياضيات

الوضعية 01: اكتب الأعداد الآتية بالحروف أو بالأرقام .

871: .....

601:.....

سبع مائة و أربعون :..... مئتان و ثلاثة عشر:.....

الوضعية 02: املأ الجدول الآتي حسب المثال .

4 و ، 5 م	500+4	خمس مائة و أربعة	504
9و،7ع،3م	.....	.....	.....
.....	.....	ثمان مائة و ثمانية و ثمانون	.....

الوضعية 03: استعمل مسطرتك المدرجة و احسب أطوال القطع المستقيمة A ;B ;C ثم رتبها من الأطول إلى الأقصر مع وضع الرمز المناسب .

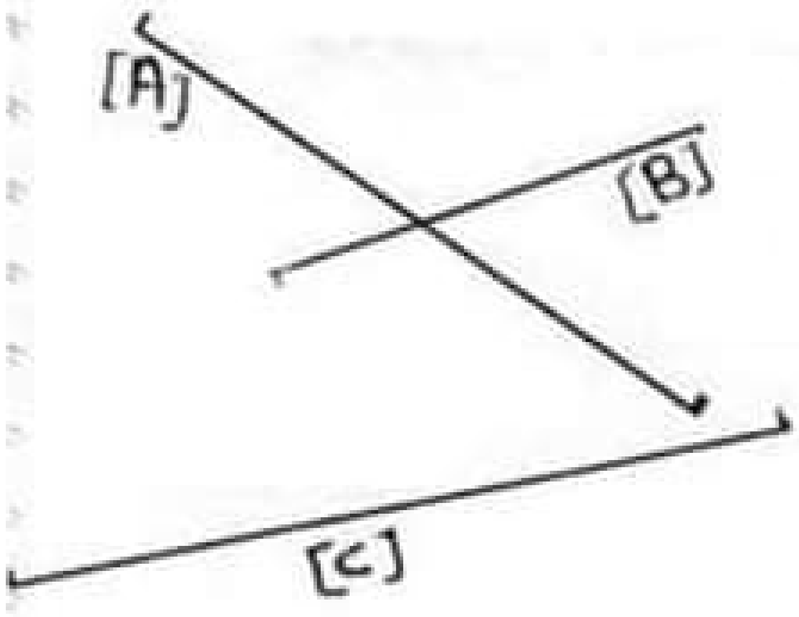

طول القطعة [A].....

طول القطعة [B].....

طول القطعة [C].....

.....

الوضعية04: : انجز العمليات التالية باستعمال الشريط العددي .

44+23 =..... **78-35=.....**

مدرسة ابراهيتي السعيد الاســـم: .....

السنة الثالثة ابتدائي اللقب: .....

اختبار الثلاثي الأول الرياضيات

التمرين الأول: أنجز العمليات التالية عموديا

638+504	746+886	976-352	795-563

التمرين الثاني: فكك الأعداد التالية

430=....+....+....	705=....+....+....	215=....+....+....

547=(.....×.....)+(.....×.....)+.....

التمرين الثالث: أكمل الفراغ بما يناسب

3L=.....cL

600cL=.....L

3L و 30cL=.....cL

20cm=.....mm

87dm=.....cm

900cm=.....m

التمرين الرابع:

✓ أرسم ثلاث نقاط على استقامية ثم صل بينها.

✓ عين نقطة حمراء هي في آن واحد على استقامية مع بقية النقاط الأخرى.

.....

.....

.....

.....

.....

.....

www.ency-education.com/3ap.html

المستوى: الثالثة ابتدائي (3AP)	ديسمبر 2019

اختبار الفصل الأول في مادة الرياضيات

الوضعية 01: اكتب بالأرقام أو بالحروف .

- ثلاث مائة و خمسة و سبعون : .....
- منتان و تسعة عشر : .....
- 1000: .....
- 763 : .....

الوضعية 02: أ-أكمل الفراغ

.....+.....=989

$$\begin{array}{r} 1\ .\ 3 \\ +\ .\ 1\ . \\ \hline 9\ 8\ 9 \end{array}$$

ب- أنجز العمليات الآتية عموديا .

619+266=.....

596-375 =.....

الوضعية 03: قارن الأعداد الآتية باستعمال الرمز المناسب (<، >، =)

700+30+9 . 800+20+6	420 . 200+200+20

900+90 . 600+400

الوضعية 04: اكتب المفكوك بثلاث طرق مختلفة حسب المثال .

936=.....

936=.....

936=.....

658 =(6X100)+(5X10)+8

658= 600+50+8

658 = 6 منات و 5 عشرات و 8وحدات

الوضعية 05 : لون كل سعتين متساويتين بنفس اللون.

528cL	8L30CL	400cL	5L 28CL	830cL	4L

ابتدائية الشهيد إفيس العربي أقبو بجاية — قسم السنة الثالثة ابتدائي 2018

المدة: ساعة ونصف — اسم ولقب التلميذ:.....

اختبـــار الفصـــل الأول فـــي مادة الرياضيـــات

التمرين الأول: أ- أنجز العمليات عموديا:

7365 – 2154 =.....

.....

+.....

=.....

6034 + 819 =.....

.....

+.....

=.....

ب- أكمل الفراغ:

.....+ .....=.....

2 . 6 .

+ . 3 . 2

7 3 . 0

التمرين الثاني: حول إلى الوحدة المناسبة:

350 g + 600 g + ...g = 1 kg

5000 mm = ...m

800 cL = ...L

4 kg + 2000 g = ...kg

7 m + 225 cm = ...cm

28 cl + 34 dL = ...cL

التمرين الثالث:

- احصر العدد بين عددين عشراتهما متتاليتين:

.....< 725 <.....

- احصر العدد بين عددين منتاهما متتاليتين:

.....< 4197 <.....

- ضع = . > . < مكان النقط:

420 . 160 + 253

1629 . 1000 + 600 + 20 + 9

836 - 200 . 421 + 100

التمرين الرابع: املأ الفراغ بالعبارة المناسبة: **على نفس الاستقامة - ليست على استقامة واحدة - متوازيتان – متعامدتان**

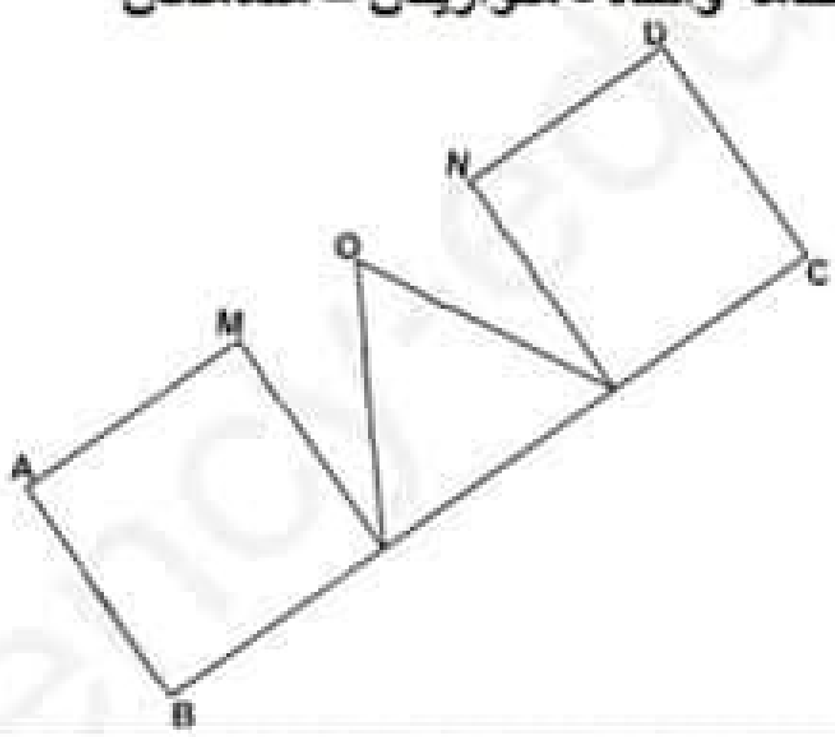

- القطعتان [AB] و [DC].....
- النقاط A . D . M . O. N .....
- القطعتان [AB] و [BC].....
- النقاط C . M . A.....

- لون زاويتين قائمتين في الشكل.

الوضعية الادماجية: في العطلة ذهبت مع عائلتي إلى شاطئ البحر، المسافة بيننا وبين شاطئ البحر 295 Km، وفي الطريق رأيت لافتة كتب عليها 1. 48 Km- احسب المسافة التي قطعتها السيارة.

عندما وصلنا إلى الشاطئ، اشترينا كرة ب 450 DA، وعوامتين لي و لأخي الصغير بـ 750 DA للعوامة الواحدة.

2- احسب ثمن العوامتين.

3- ما هو ثمن المشتريات؟.

www.ency-education.com/3ap.html

الوضعية 05: اكمل الجدول الآتي بما يناسب .

رقم العشرات	العدد	عدد العشرات
	807	
	123	

– احصر الأعداد بين عشرتين متتاليتين .

.. .... <623<.....

..... < 958<.....

الوضعية 06: اكمل متتالية الأعداد الآتية .

.....	.....	.....	.....	386	286

المشكلة :

أراد مراد شراء آلة تصوير ثمنها **785** دينارا ، فقام بعد نقوده التي ادخرها فوجد، **ورقة نقدية واحدة من فئة 500 دينار** ، **وورقة واحدة من فئة 200دينار** ، و **قطعة نقدية من فئة 50دينار** و قطعة نقدية من **فئة 5 دينار** .

1- احسب مجموع النقود التي يملكها مراد و مثلها بالرسم .

2 – هل تكفيه نقوده لشراء آلة التصوير ؟ ولماذا ؟

.....

.....

.....

التمثيل بالرسم

الـوضـعـيـة الإدمـاجـيـة:

غرس فـلاح 326 شـجـرة زيـتـون و 143 شـجـرة مشمش و 86 شجرة لـيـمون.

❖ أحـسـب الـعـدد الإجمـالي للأشـجـار الـمـغـروسـة؟

بـعـد مـدة لاحـظ الـفـلاح أن 15 شـجـرة مـن أشـجـار الزيـتـون الـمـغـروسة يـبـسـت.

❖ كـم عـدد أشـجـار الـزيـتـون غـيـر الـمـتـضـررة؟

الأجـوبـة	الحـل	الـعـمـلـيـات
.....		
.....		
.....		
.....		
.....		
.....		

بالتوفيق للجميع

www.ency-education.com/3ap.html

الاسم:	مدرسة: الإخوة نواورية – المقطع – الرصفة.	العلامة: ... / 10
اللقب:	السنة الدراسية: 2020/2019.	
المستوى: الثالثة ابتدائي.	الأستاذ: عوج عبد الصمد	2019 / 12 /

إختبار الفصل الأول في مادة الرياضيات

الأسئلة:

1- التمرين الأول: أُكْتُبْ الْأَعْدَادَ بِالْحُرُوفِ أَوِ بِالْأَرْقَامِ

سَبْعَةٌ وَتِسْعُونَ	.....
مِئَتَانِ وَخَمْسَةَ عَشَرَ	.....
ثَلَاثُ مِئَةٍ	.....

79	.....
190	.....
410	.....

2- التمرين الثاني: أُحسب العمليات التالية:

789 − 546 =	518 − 404 =
456 + 314 =	210 + 100 =

3- التمرين الثالث: أَكْمِلْ مُتَتَالِيَة الْأَعْدَاد الْآتِيَة:

			745											735

4- التمرين الرابع: رَتِّبْ الْمُسْتَقِيمَاتْ مِنَ الْأَصْغَرِ إِلَى الْأَكْبَرِ بِالْأَرْقَامِ مِنْ 1 إِلَى 4:

.....	.....	.....	.....

5- التمرين الخامس: أُكْتُبْ كَمَا فِي الْمِثَالِ

86 = 80 + 6	78 =	54 =	54 =
841 = 800 + 40 + 1	627 =	903 =	754 =

السنة الثالثة

اختبار شامل للفصل الأول في الرياضيات

2021

التمرين الأول: أنجز العمليات الآتية:

800	621	836	753
− 433	− 617	+ 390	+ 132
= ...	= ...	= ...	= ...

التمرين الثاني: أكمل الفراغ:

31 ℓ 60 cℓ = ... cℓ	9 m 3 cm = ... mm
86 cℓ 37 mℓ = ... mℓ	86 dm 5 cm = ... cm
16 dℓ 8 mℓ = ... mℓ	34 m = ... cm
321 ℓ 3 dℓ = ... dℓ	73 dm 20 cm = ... mm

التمرين الثالث: فكك الأعداد الآتية:

9810 = ...

3118 = ...

6006 = ...

7043 = ...

التمرين الرابع: أكتب الأعداد بالحروف أو بالأرقام

9810 ← .....

..... ← خمسة آلاف وثمان مائة وأربعة وعشرون.

7043 ← .....

التمرين الخامس: املأ الفراغ بما يناسب:

500 g + ... = 1 kg

300 g + ... = 1 kg

250 g + 100 g + ... = 1 kg

660 g + 30 g + ... = 1 kg

قناة سوبر وان التعليمية على اليوتيوب

السنة 2021
الثالثة

التمرين السادس: أكمل بما يناسب:

ضعف 500 هو ..... نصف 462 هو .....

نصف 130 هو ..... ضعف 77 هو .....

ضعف 626 هو ..... نصف 1206 هو .....

التمرين السابع:

1- أُرسم مستقيمان متوازيان (B)، (A)

2- أُرسم قطعة مستقيم [C D]
طولها 4 cm
- عيّن النقطة M منتصف [C D]

3- أُرسم مستقيمان متعامدان (G)، (F).
عيّن الزاويةَ القائمةَ.

الوضعيةُ الإدماجيةُ:

إشترى الأب بعض الخضر بـ 585 دينارًا و فواكها بـ 620 دينارًا.
- كم ثمن المشتريات؟
اعطى الأب ورقة 2000 دينار للتاجر
- كم يرجع له التاجر؟

العمليات الحل الجواب

قناة سوبر وان التعليمية على اليوتيوب

مفتشية: بوعنداس 01 | السنة الدراسية: 2018/2017

ابتدائية: الإخوة مـدوري -بوعنداس- | المستوى: السنة الثالثة ابتدائي

اسم و لقب التلميذ :.....

..
10

امتحان الفصل الأول في مادة الرياضيات

التمرين الأول : (1.5 ن)

أنجزْ عَمليَاتِ الجَمْعِ الآتِيَةَ :

389	767	645
+ 478	+ 198	+ 289
=	=	=

التمرين الثاني : (1.5 ن) أُقَارِنُ بَيْنَ كُلِّ عَدَدَيْنِ بِاسْتِعْمَالِ أَحَدِ الرُّمُوزِ < ، > ، =

989 . 900+80+8 ، 725 . 700+30+5 ، 931 . 900+30+1

التمرين الثالث : (1.5 ن) أَكْتُبُ الْعَدَدَ الْمُنَاسِبَ لِكُلِّ تَفْكِيكٍ .

(7×100)+(8×10)+9=... (9×100)+(6×10)+9=... (6×100)+(7×10)+8=...

التمرين الرابع : (1.5 ن) أَرْسُمْ ثَلاثَ نِقَاطٍ تَكُونُ عَلَى اسْتِقَامَةٍ وَاحِدَةٍ مَعَ النُّقْطَةِ D .

A ، B ، C D •

وضعية ادماجية : يَمْلِكُ ابْرَاهِيم فِي حَصَالَتِهِ مَبْلَغ DA300 ، وَيَمْلِكُ أَخُوهُ مُوسَى ضِعْفَ مَا يَمْلِكُ إِبْرَاهِيم

- كَمْ يَمْلِكُ مُوسَى ؟
- كَمْ يَمْلِكُ الأَخَوَانِ مَعًا ؟
- قَامَا بِشِرَاءِ هَدِيَّةٍ ثَمَنُهَا DA 200 - كَمْ بَقِيَ لَهُمَا ؟

الإجابة

الْعَمَلِيَاتُ	الحل	الْجَوَابُ
...	...	... . = ...
...	...	يَمْلِكُ مُوسَى : DA ...
= ...	= ...	... . = ...
...		يَمْلِكُ إِبْرَاهِيم وَمُوسَى مَعًا DA ...
...		... . = ...
= ...		بَقِيَ لَهُمَا مبلغ : DA ...

ency-education.com/exams

www.ency-education.com/3ap.html

ابتدائية .....

مقـــاطعـة ..... 02 قسم : السنة الثالثة ابتدائي

اللقب و الاسـم: .....

امتحان الفصل الأول

المـــدة : ساعة ونصف	ديسمبر 2017

اختبار مادة : الرياضيات

1)- أَرْبِطُ كُلَّ عَدَدٍ بِمَا يُنَاسِبُهُ : (02 ن)

- 645 ● ● ثَمَانِمِئَةٍ و ثَلاثَةٌ و سِتُّونَ .
- 212 ● ● سِتُّمِئَةٍ و خَمْسَةٌ و أَرْبَعُونَ .
- 1001 ● ● مِئَتَانِ و إِثْنَا عَشَرَ .
- 863 ● ● أَلْفٌ و وَاحِدٌ .

2)- أُرَتِّبُ الأَعْدَادَ التَّالِيَةَ تَرْتِيبًا مِنَ الأَصْغَرِ إِلَى الأَكْبَرِ فِي الشَّرِيطِ العَدَدِي: (03 ن)

535 - 373 - 491 - 127 - 1000 - 71

.....	.....	.....	.....	.....	.....

3) - أُنْجِزُ العَمَلِيَاتِ التَّالِيَةِ : (3 ن)

685	864	884	368	934	433
+	+	−	+	+	+
348	449	452	231	228	298
=	=	=	=	=	=

4)- أَرْسُمُ : (01 ن)

- أَرْسُمْ قِطْعَةً مُسْتَقِيمَةً (أ، ب) طُولُهَا 10سم ، ثُمَّ عَيِّنْ مُنْتَصَفَهَا (جـ) .
- .....

5)- أَبْحَثُ : (01 ن)

عِنْدَ محمّدٌ 328 كُرَّاسًا ، وَ عِنْدَ وَلِيدٍ ضِعْفُ مَا عِنْدَ محمّدَ مِن كَرَارِيسِ .

- مَا هُوَ عَدَدُ كَرَارِيسِ وَلِيدٍ ؟
- ما هُوَ عَدَدُ كَرَارِيسِ محمد و وليد معًا ؟

دعاء الامتحان : اللّهم لا سهل إلّا ما جعلته سهلا وأنت تجعل الحزن إذا شئت سهلًا.

الأستاذ زريقي محمد

www.ency-education.com/3ap.html

ابتدائية : الشهيد لبني بن عثمان

مقـــاطعة : دراق

قسم السنـــة : ثالثـة ابتدائي

الاسم واللقب : .....

10

ديسمبر 2017

امتحـــان الفصل الأول

اختبـــار مـادة: الرياضيـــات

المـــدة : ساعة ونصف

1) اربط كل عدد بما يناسبه : (02 ن)

645 •	• ألف وثلاثـــة
212 •	• مائتان واثني عشر
1003 •	• سبعمائة وتسعة وثمانون
789 •	• ستمائة وخمسة وأربعون

2) أرتِّب الأعداد التالية من الأصغر إلى الأكبر : (من اليسار إلى اليمين) (1.5 ن)

.....	.....	.....	.....	.....	.....

85 – 165 – 642 – 1001 – 473 – 624

3) أُفكك الأعداد التالية : (2 .5 ن)

217 = ...+ .....+	705 = ...+ .....+	430 =.....+ .....+ .....
119= (.....× .....) + (..... × .....) + ...	644 =(..... × .....) + (..... × .....) + ...	

4) أُرســـم : (01 ن)

- أُرسم قطعةً مستقيمةً (أ ، ب) طولها (10 cm سم) ثم عيّن منتصفها (جـ)

- .....

ency-education.com/exams

وضعية إدماجية : (03)

يملك أيمن في حصّالته مبلغ 250 DA (دج)، وتملك أخته ملاك ضِعف ما يملك أيمن.

- كم تملك ملاك؟
- كم يملك الأخوان معاً؟

قاما بشراء هدية ثمنها 150 دج ، كم بقي لهما؟

العمليات	الحل :	الأجوبة
.....	- تملك مـــلاك :	..... DA
.....	- تملك ملاك وأيمن معاً:	.....DA
.....	- بقي لهمـا مبلغ :	.....DA

بالتوفيق إن شاء الله

www.ency-education.com/3ap.html

مديرية التربية لولاية البـلـيـدة

ابتدائية: السـواكريـة 01 - المستوى: السنة الثالثة ابتدائي

اسم و لقب التّلميذ: ..... السنة الدّراسية: 2019/2018

امتحان الفصل الأول في مادة الرياضيات

الوضعية01: ذهبت مع والدك لشراء بعض اللوازم التي تحتاجها أمك لصنع كعكة العيد.

أرتب هذي الأسعار من الأرخص إلى الأغلى ⟶

.....

قائمة الأسعار

السكر= 100 دج

الفرينة = 120 دج

الزبدة = 140 دج

الفراولة =600 دج

الوضعية 02 : كما اشترى الأب من قبل ثلاثة أطباق من البيض و 2 كيلو غرام من اللوز

قائمة الأسعار

البيض= 300 دج للطبق الواحد

اللوز = 1200 دج للكيلو غرام

1/ أحسب ثمن البيض:	2/ أحسب ثمن اللوز
.....	.....
.....	.....
.....	.....
.....	.....

الوضعية 03: أثناء تحضير الكعكة طلبت منك أمك أن تساعدها في تزيين الكعكة بقطع اللوز والفراولة

1- أرسم **بالأحمر** 04 قطع فراولة **في استقامية** واحدة.

2- ارسم **بالأصفر** 04 قطع لوز **ليست في استقامية**.

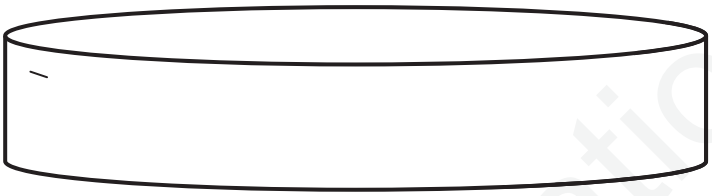

الوضعية 04: لتزيين الكعكة طلبت منك أمك شراء شريط فاحترت في اختيار لون الشريط المناسب بحيث أن: الشريط الأحمر طوله 180cm ، أما الشريط البنفسجي فطوله **1m75cm .**

1- أكمل 1m75cm =.....cm

2- أكل الإجابة: الشريط الأطول هو الشريط .....

الوضعية الإدماجية:

مشكلة:

كان معك 1000 دج وزادك أباك 875دج

اشتريت هدية لأمك ثمنها 1225 دج

1- أحسب المبلغ الذي جمعته .

2- أحسب المبلغ الذي بقي عندك

العمليات	الحل	الأجوبة
.....		.....
.....		.....
.....		.....
.....		.....
.....		.....
.....		.....

www.ency-education.com/3ap.html

مدرسة ابراهيتي السعيد — الاســـم: .....

السنة الثالثة ابتدائي — اللـقـب: .....

اختبـــار الثلاثي الأول الرياضيات

التمرين الأول: أنجز العمليات التالية عموديا

795-563	976-352	746+886	638+504

التمرين الثاني: فكك الأعداد التالية

215=....+....+....	705=....+....+....	430=....+....+....

547=(.....×.....)+(.....×.....)+.....

التمرين الثالث: أكمل الفراغ بما يناسب

20cm=.....mm

87dm=.....cm

900cm=.....m

3L=.....cL

600cL=.....L

3L و 30cL=.....cL

التمرين الرابع:

✓ أرسم ثلاث نقاط على استقامية ثم صل بينها.

✓ عين نقطة حمراء هي في آن واحد على استقامية مع بقية النقاط الأخرى.

.....
.....
.....
.....
.....
.....

www.ency-education.com/3ap.html

الـوضـعـيـة الإدمـاجـيـة:

غرس فـلاح 326 شـجـرة زيـتـون و 143 شـجـرة مـشـمـش و 86 شـجـرة لـيـمـون.

❖ أحـسـب الـعـدد الإجـمـالـي للأشـجـار الـمـغـروسـة؟

بـعـد مـدة لاحـظ الـفـلاح أن 15 شـجـرة مـن أشـجـار الـزيـتـون الـمـغـروسـة يـبـسـت.

❖ كـم عـدد أشـجـار الـزيـتـون غـيـر الـمـتـضـررة؟

الأجـوبـة	الحـل	الـعـمـلـيـات
.....		
.....		
.....		
.....		
.....		
.....		

بالـتـوفـيـق للجـمـيـع

www.ency-education.com/3ap.html

مدرسة : قمره فرحات الموسم الدراسي : 2019/2018

اختبار مادة الرياضيات (السنة الثالثة ابتدائي)

التمرين الأول (2ن)

فكك الأعداد الآتية

415=
3042=
640=
1654=

التمرين الثاني (2ن)

اكتب الأعداد الآتية بالحروف

: 510
: 6514
: 1062
: 908

التمرين الثالث (1.5ن)

جد ضعف كل عدد

420 103 312

التمرين الرابع (2ن)

- أرسم قطعة مستقيمة ab طولها 10cm
- عين النقطة m منتصف القطعة ab
- أرسم مستقيما عموديا على القطعة ab يمر من منتصفها m
- عين زاوية قائمة في الشكل

التمرين الخامس (2.5ن)

يملك أيمن 350 دينارا وتملك أخته مريم 500 دينارا .

- كم دينارا أصبح عندهما ؟

اشتريا هدية لأمهما بـ 670 دينارا .

- كم دينارا بقي لديهما ؟

الأستاذ : بوالشعير رابح

www.ency-education.com/3ap.html

ابتدائية الشهيد إفيس العربي أقبو بجاية — قسم السنة الثالثة ابتدائي 2018

المدة: ساعة ونصف — اسم ولقب التلميذ:.....

اختبـــار الفصـــل الأول فـــي مادة الرياضيـــات

التمرين الأول: أ- أنجز العمليات عموديا:

7365 – 2154 =.....

.....

+.....

=.....

6034 + 819 =.....

.....

+.....

=.....

ب- أكمل الفراغ:

.....+ .....=.....

2 . 6 .

+ . 3 . 2

7 3 . 0

التمرين الثاني: حول إلى الوحدة المناسبة:

350 g + 600 g + ...g = 1 kg

5000 mm = ...m

800 cL = ...L

4 kg + 2000 g = ...kg

7 m + 225 cm = ...cm

28 cl + 34 dL = ...cL

التمرين الثالث:

- احصر العدد بين عددين عشراتهما متتاليتين:

.....< **725** <.....

- احصر العدد بين عددين مئتاهما متتاليتين:

.....< **4197** <.....

- ضع = . > . < مكان النقط:

420 . 160 + 253

1000 + 600 + 20 + 9 . 1629

421 + 100 . 836 - 200

التمرين الرابع: املأ الفراغ بالعبارة المناسبة: **على نفس الاستقامة - ليست على استقامة واحدة - متوازيتان – متعامدتان**

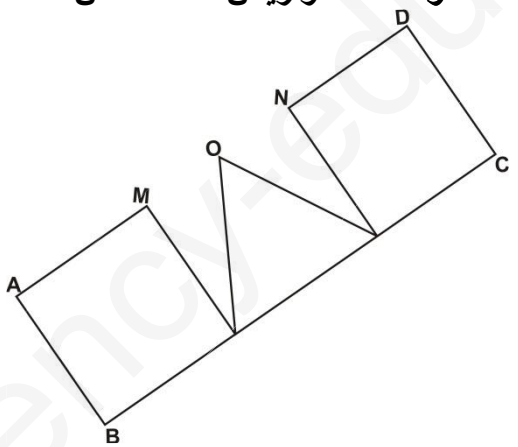

- القطعتان [AB] و [DC].....
- النقاط A . D . M . O. N .....
- القطعتان [AB] و [BC].....
- النقاط C . M . A.....

- لون زاويتين قائمتين في الشكل.

الوضعية الادماجية: في العطلة ذهبت مع عائلتي إلى شاطئ البحر، المسافة بيننا وبين شاطئ البحر 295 Km، وفي الطريق رأيت لافتة كتب عليها 48 Km .1- احسب المسافة التي قطعتها السيارة.

عندما وصلنا إلى الشاطئ، اشترينا كرة ب 450 DA، وعوامتين لي و لأخي الصغير بـ 750 DA للعوامة الواحدة.

2- احسب ثمن العوامتين.

3- ما هو ثمن المشتريات؟

www.ency-education.com/3ap.html

مدرسة القرشي ربيح بالزبيريـــة
مقاطعة سغـــــــــــوان
مديرية التربية لولاية المديـــــة

الجمهورية الجزائرية الديمقراطية الشعبية
وزارة التربية الوطنية

السنة الدراسية = 2018 / 2019 .
مستوى السنة 3 ابتدائي .
الفوج الثّاني / القاعة 05

اختبار الثّلاثي الأوّل في الرّياضيّات

التمرين الأول : 1,5

أُكْتُبِ الْأَعْدَادَ الْمُمَثَّلَة بِالْأَرْقَامِ وَ بِالْحُروفِ .

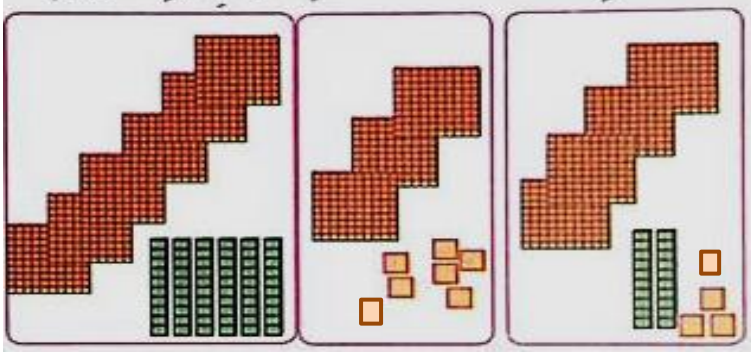

العدد بالأرقام	العـــــــدد بالحـــــــــــروف

التمرين الثاني : 2,5 ن

(أ) : احْسُبْ عموديًا ما يلي :

240 – 120 = ...

788 + 299 = ...

2 × 123 = ...

(ب) : فكك العَدَدَيْنِ التّالِيَيْن:

895 = (..... × .....) + (..... × .....) + ...

190 = (..... × .....) + (..... × .....)

التمرين الثالث 1,5 ن

(أ) : حوّل ما يلي :

سنتيمتر ، متر ، مليلتر ، دسيلتر ، سنتيغرام ، دسيغرام ، غرام

45 m = ...cm

18 DL = ...ML

10 g 6 dg = ...cg

(ب) : ارسم 4 نقاط كُلّهَا فِي اسْتِقَامِيَّةٍ

التمرين الرّابع : 1,5 ن

امْلأ الجدول بكَمِيَّة الأمْطَارِ المُتَسَاقِطَةِ فِي مَدِينَة مَا بالميليمتر حَسْبَ المخطط المقابل .

الشهر	جانفى	فيفرى	مارس	أفريل	ماى	جوان
كمية الأمطار	-----	-----	-----	-----	-----	-----

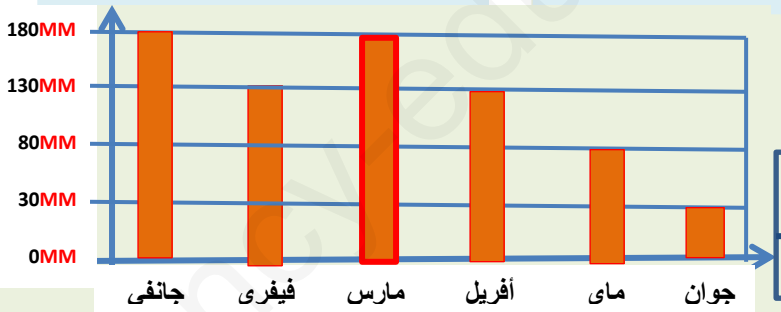

الوضعية الادماجية : 3 ن

بِمُنَاسَبَةِ عِيدِ الفِطْرِ اشْتَرَى أبٌ وَزَوْجَتُهُ لِأَوْلَادِهِمَا مَا يَلِي :
الأَبُ اشْتَرَى لَهُمْ لُعَبًا بِـــ: 800 DA وَالْأُمُّ اشْتَرَتْ لَهُمْ 3 قِصَصٍ ثَمَنُ الْقِصَّةِ الْوَاحِدَةِ 50 DA .

- احْسُبْ كَمْ دينَارًا دَفَعَتْ الْأُمُّ لِلْبَائِعِ ؟
- مَا هُوَ مَجْمُوعُ مَا صَرَفَــهُ الْأَبُ وَ الْأُمُّ مَعًا ؟

الْعَمَلِـــيَّات	الْأَجْـــــوِبَة
.... =	....
.... =	

اسم ولقب التلميذ = .../ العلامة = الملاحظة : ..... توقيع الولي :

ency-education.com/3ap.html

الاسم و اللقب: .....

المدرسة الابتدائية: الشهيد علية عزوزي

القسم: الثالثة (ب)

المقاطعة التربوية – الطريفاوي- الوادي

المـدة: ساعة و نصف

مساء يوم: الأحد08 ديسمبر 2019

اختبار الفصل الأول في الرياضيات

التَّمْرِينُ الأوَّلُ: (1.50 ن)

1-أكْمِلْ كِتَابَةَ الأعْدَادِ بِالأرْقَامِ أوْ بِالْحُرُوفِ:

50	.....	وَاحِدٌ وَ ثَمَانُونَ	.....	سَبْعُ مَائَةٍ وَ ثَمَانِيَة	.....

2-أكْمِلْ الْمُسَاوَيَاتِ:

105 – 100 =..... 450 + 10 =..... 502+1=.....

التَّمْرِينُ الثَّانِي: (1.50 ن)

- أكْمِلْ تَحْدِيد مَوْقِعْ الْحَيَوَانَاتِ مِنَ الْمَرْصُوفَةِ:

هـ					(ب ، 1)
د					(....،....)
ج					(....،....)
ب					(....،....)
أ					
	1	2	3	4	

التَّمْرِينُ الثَّالِثُ: (1.50 ن)

1 - لَوِّنْ الْعَدَدَ الْمُنَاسِبَ لِكُلِّ تَفْكِيكٍ:

3 + 500			400 + 5 + 80		
503	305	530	548	485	458

2 -رَتِّبِ الأعْدَادَ تَصَاعُدِيًا:

523 – 539 –260 –32

..... < ..... < ..... < .....

ency-education.com/3ap.html

التَّمْرِينُ الرّابعُ: (1.50 ن)

- أجْرِ الْعَمَلِيَاتِ الآتِيَةِ:

	6	5	4
+	1	2	3
=	.	.	.

	4	0	9
+	1	2	7
=	.	.	.

	1	3	4
+	.	4	7
=	.	.	.

		2	4
−		1	3
=		.	.

	3	4	5
−	2	1	0
=	.	.	.

	5	6	7
−	.	6	6
=	.	.	.

الْوَضْعِيَةُ الإِدْمَاجِيَةُ(4 ن):

تَمْلِكُ مُنَى فِي حَصَّالَتِهَا **152** دِينَارًا ، وَ يَمْلِكُ أَحْمَدُ فِي حَصَّالَتِهِ **124** دِينَارًا. بِمُنَاسَبَةِ نَجَاحِهِمَا أَعْطَى الأَبُ لِكُلِّ وَاحِدٍ مِنْهُمَا **150** دِينَارًا.

كَمْ دِينَارًا صَارَ عِنْدَ مُنَى ؟

كَمْ دِينَارًا صَارَ عِنْدَ أَحْمَد ؟

الحَـــــلُّ

الجَوَابُ	العَمَلِيَاتُ
..... = ...	....
صَارَ عِنْدَ مُنَى [.....] دِينَارًا	....
..... = ...	..... = ... = ...
صَارَ عِنْدَ أَحْمَد [.....] دِينَارًا	

امضاء الولي

ency-education.com/3ap.html